1. Ercan'ın forma numarası 1 onluk ve 8 birlikten oluşmaktadır. Buna göre Ercan'ın forma numarası bir desteden kaç fazladır?

Çözüm:

2. Bir düzine silginin sayısı, bir deste silginin sayısından kaç fazladır?

Çözüm:

3. Emre Can

Otuz yedi TL	Yetmiş dört TL

Emre ve Can paralarını rakamla yazarken kullandıkları ortak rakamların toplamı kaçtır?

Çözüm:

4. Samet'in balonlarının bir düzine olabilmesi için kaç bolana ihtiyacı vardır?

Çözüm:

5. ★★★● = 31 ★★ = 20

Yukarıda onluk ve birlikleri sembolle gösterilen sayılar verilmiştir. Buna göre ★★★★●● hangi sayı ile ifade edilir?

Çözüm:

6.



Ayça, kalemlerin sayısını 20 olarak tahmin ediyor. Ayça, sarı kalemlerin sayısını doğru tahmin etmiştir. **Buna göre Ayça'nın siyah kalemler için yaptığı tahmin, siyah kalemlerin gerçek değerinden kaç eksiktir?**

Çözüm:

7. 2 deste silgim vardı. 9 tanesini kullandım. **Geriye kaç silgim kaldı?**

Çözüm:

8. 3 onluk ve 2 birlikten oluşan sayı 2 desteden kaç fazladır?

Çözüm:

9.

2 9 5 3

Yukarıdaki rakamlar kullanılarak oluşturulabilecek en küçük sayı 2 desteden kaç fazladır?

Çözüm:

10. 2 deste toka, iki basamaklı en küçük sayıdan kaç fazladır?

Çözüm:

11.



Yukarıdaki akvaryumdaki balıkların arasına bir düzine kadar balık koyulup 5 tanesi çıkarılıyor. **Son durumda akvaryumda kaç balık kalmıştır?**

Çözüm:

12.



Yukarıda verilen yıldızlardan her biri bir onluğu, karelerin ise bir birliği ifade etmektedir. **3 yıldızı, 10 karesi bulunan Emre'nin elde ettiği sayı 2 desteden kaç fazladır?**

Çözüm:

13. 5 destedeki birlik sayısı ile 70 sayısındaki onluk sayısının toplamı kaçtır?

Çözüm:

14.

34

Verilen sayıya 4 birlik ekleyip 2 onluk çıkardığımızda hangi sayıyı elde ederiz?

Çözüm:

15.

TR 34	TR 28	TR 43
İstanbul	Giresun	Kütahya

Bir tır önce plaka numarasının birler basamağındaki rakamın 4 olduğu şehre ardından Giresun'a gitmiştir. **Buna göre en son gideceği şehrin plaka numarası 3 desteden kaç fazladır?**

Çözüm: