1.

Yukarıdaki oduncu onlar basamağının basamak değeri en düşük olandan başlayarak en yüksek olana doğru sıra ile kütükleri kesiyor. **Buna göre 5. kestiği kütük 5 desteden kaç fazladır?**

Çözüm:

2. 37 sayısının birler ve onlar basamağındaki sayılar yer değiştirilerek üzerine 15 sayısı ekleniyor. **Yeni oluşan sayı kaçtır?**

Çözüm:

3. Sınıfı süslemek için Aytaç 9, Sema bir deste, Derin bir düzineden 2 fazla balon getirmiştir. **Buna göre süs için kaç bolan getirilmiştir?**

Çözüm:

4.

4 3 8 6 .....

Yukarıdaki kartların ön yüzünde üçer, arka yüzünde ise dörder ritmik sayama yaparken söylediğimiz sayılar yazılıdır. Mert altıncı karttaki küçük sayıyı, Ali ise yedinci karttaki büyük sayıyı seçip birbirlerine söylemişlerdir. **Buna göre iki arkadaşın birbirine söylediği sayıların toplamı kaçtır?**

Çözüm:

5.



Yukarıda dokunmatik ekranı bulunan robotun içine iki rakam yazılabiliyor. Robot bu iki rakamla en büyük iki basamaklı sayıyı oluşturup en yakın onluğa yuvarlıyor. **Buna göre ekrana 7 ve 5 rakamlarını yazdığımızda hangi sayıyı elde ederiz?**

Çözüm:

6.



Ayaz ve Ceren'in topladığı elmalar en yakın onluğa yuvarlanıp görsellerin altına yazılmıştır. **Buna göre ikisinin topladığı elmaların sayısı en fazla kaç olabilir?**

Çözüm:

7. Bir sınıfta öğretmen öğrencilere iki düzine kalem dağıtmış, 1 kalem artmıştır. Her öğrenci birer kalem almıştır. **4 öğrencinin okula gelemediği göz önüne alınırsa sınıf mevcudu kaçtır?**

Çözüm:

8. Berrak her gün üç ceviz iki badem yemektedir. **Buna göre Berrak 24 ceviz yediği zaman kaç tane badem yemiş olur?**

Çözüm:

9.



Sema hedef tahtasına üç atış yapmış ve isabet ettirdiği sayıları toplamıştır. **Buna göre Sema'nın isabet ettirdiği sayıların toplamı kaçtır?**

Çözüm:

10.

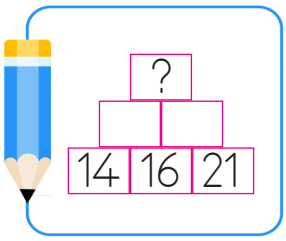

Yan yana verilen sayılar toplanıp bir üst basamağa yazılmaktadır. **Buna göre "?" ile belirtilen yere yazılan sayının en yakın onluğu kaçtır?**

Çözüm:

11.

Çiftçi Cengiz cumartesi ve pazar günleri bahçesine fidan dikmeyi planlamıştır. Cumartesi günü 24 fidan, pazar günü ise 27 fidan dikmeyi hedeflemiştir. Ancak çiftçi, hedefinden 15 fazla fidan dikerek işini bitirmiştir. **Buna göre çiftçi kaç fidan dikmiştir?**

Çözüm:

12. Bir otobüste 19 yolcu vardır. Otobüse birinci durakta 14, ikinci durakta 17 yolcu binmiştir. **Buna göre otobüsteki yolcu sayısı kaçtır?**

Çözüm:

13.



Yukarıdaki rakamlar birer kez kullanılarak iki basamaklı iki sayı oluşturulacaktır. **Buna göre oluşturulan sayların toplamı en az kaçtır?**

Çözüm:

14. Üç kardeşten en küçüğü 8, ortanca olanı 12, büyük olanı ise 18 yaşındadır. **Üç kardeşin yaşları toplamı babalarının yaşına eşit olduğuna göre babayla en küçük kardeşin yaşları toplamı kaçtır?**

Çözüm:

15. Murat sekiz sayısından başlayarak ileriye dörder ritmik sayma yapmaktadır. **Murat'ın söylediği 7. sayının 2 deste fazlası kaçtır?**

Çözüm: