1. "Üç yüz seksen dokuz" sayısının onlar basamağındaki rakamın basamak değeri ile "dokuz yüz on yedi" sayısının birler basamağının basamak değeri toplamı kaçtır?

ÇÖZÜM:

2.

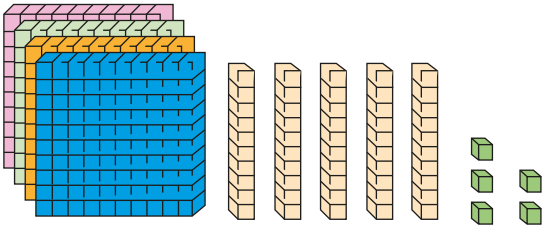

Yukarıdaki taban blokları ile oluşturulan sayıdan başlayarak ileriye doğru onar ritmik sayarsak 7. söylediğimiz sayı kaç olur?

ÇÖZÜM:

3. 600 + 30 + 5 = 635

Yukarıda verilen örneğe göre

◆ + ● + ★ = 127 işleminde

◆ + ● sonucu kaçtır?

ÇÖZÜM:

4. 5B9 doğal sayısını en yakın yüzlüğe yuvarladığımızda 500 sayısını vermektedir. Buna göre "B" yerine yazılabilecek rakamların toplamı kaçtır?

ÇÖZÜM:

5.

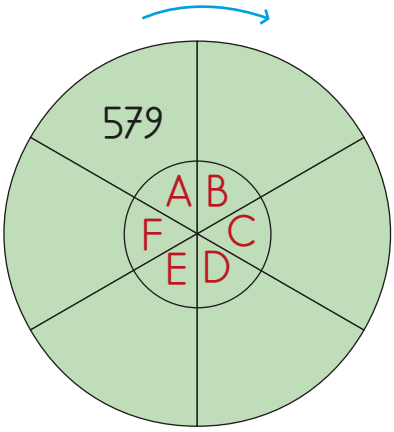

Yukarıdaki çarkın içinde her harfe ait bir dilim bulunmaktadır. Harflerin bulunduğu dilimde aynı zamanda sayılar için de yer ayrılmıştır. A sayısı ile 579 sayısı aynı dilimde bulunmaktadır. 579 sayısından başlayarak ok yönünde onar artırılarak tüm dilimler doldurulmuştur.

Buna göre B ile E diliminde bulunan sayıların yüzler basamağındaki rakamların basamak değerleri farkı kaçtır?

ÇÖZÜM:

sonerhoca.net

6. Servet, oyuncak arabasıyla her gün bir önceki günden 5 dakika fazla oynamaktadır. Pazartesi günü 17 dakika oynadığına göre çarşamba ve cumartesi günü oynadığı sürelerin toplamı kaç dakikadır?

ÇÖZÜM:

7.

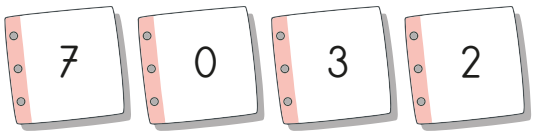

Yukarıdaki rakamlar birer kez kullanılarak oluşturulabilecek üç basamaklı en küçük sayı en yakın onluğa, üç basamaklı en büyük sayı en yakın yüzlüğe yuvarlanmıştır. Oluşan iki sayının yüzler basamağındaki rakamların basamak değerleri farkı kaçtır?

ÇÖZÜM:

8. Onluğa yuvarlandığında 300 sayısını veren en büyük sayı ile yüzlüğe yuvarlandığında 300 sayısını veren en küçük sayının rakamları toplamı kaçtır?

ÇÖZÜM:

9. 247 < 298 < 275 < 322 < 408

Yukarıdaki sıralamanın doğru olabilmesi için iki sayının yerinin değiştirilmesi gerekmektedir. Değişmesi gereken sayıların onlar basamaklarının basamak değerleri toplamı kaçtır?

ÇÖZÜM:

10. 8'den başlayıp ileriye doğru sekizer ritmik saydığımızda 72'den önce ve sonra söylediğimiz sayıların toplamı kaçtır?

ÇÖZÜM:

sonerhoca.net

11. 5 2 9 0 3 6

Yukarıdaki rakamlar birer kez kullanılarak üç basamaklı en büyük sayı oluşturulmuştur. Daha sonra kalan rakamlarla üç basamaklı en küçük sayı oluşturulmuştur.
Oluşturulan üç basamaklı iki sayının arasına yazılabilecek en büyük ve en küçük sayının rakamları toplamı kaçtır?

ÇÖZÜM:

12. "617" sayısının onlar ve yüzler basamağı yer değiştirerek A sayısı oluşturulmuştur. Bu oluşturulan A sayısının en yakın onluğa yuvarlanmış hali Okan'ın kapı numarasını vermektedir.
Buna göre Okan'ın kapı numarası kaçtır?

ÇÖZÜM:

13. 300 ile 400 sayıları arasındaki en büyük ve en küçük sayının onlar basamağındaki rakamların toplamı kaçtır?

ÇÖZÜM:

sonerhoca.net

14.

Yukarıdaki okul servisinde 11 öğrenci bulunmaktadır. Şoför, öğrencilerle ritmik sayma oyunu oynamıştır. Oyunun kuralı; şoför bir sayı söyledikten sonra diğer öğrenciler sayıyı aynı artış miktarıyla devam ettirecektir.
Her öğrenci sadece bir sayı söylemiş ve son öğrenci 97 sayısını söylemiştir.
Sayılar yedişer ritmik arttığına göre şoför hangi sayıyla oyunu başlatmıştır?

ÇÖZÜM:

15.

Birsel, balıklara her gün bir önceki günden 8 fazla yem atmaktadır. **3. gün 24 yem attığına göre 1. gün attığı yem sayısı ile 5. gün attığı yem sayısının toplamı kaçtır?**

ÇÖZÜM:

16. Yanda okunuşları verilen sayılardan en büyüğü ile en küçüğünün onlar basamaklarındaki rakamların basamak değerleri toplamı kaçtır?

Üç yüz yetmiş beş
İki yüz yedi
Yüz seksen dokuz
Beş yüz elli

ÇÖZÜM:

17. 13 19 25 31

Yukarıdaki örüntü 3 adım daha devam ettiriliyor. Buna göre eklenen 3 sayının toplamı kaçtır?

ÇÖZÜM:

18. 3 artan 2 azalan bir örüntüde 1. sayı 17 olduğuna göre 3. sayı ile 5. sayının farkı kaçtır?

ÇÖZÜM:

19.

Murat: 27-36-45-54-63-72

Okan: 32 .... ●

Deniz: 47 .... ■

Yukarıda oluşturulan sayı örüntülerinin kuralları aynıdır.
Buna göre ● ve ■ yerine yazılması gereken sayıların toplamı kaçtır?

ÇÖZÜM:

20. Kural: İki artan üç azalan örüntü

59 ◯ ★ ◯ ⬢

Yukarıdaki örüntü kuralına göre sembollerin yerine gelecek sayıların toplamı kaçtır?

ÇÖZÜM:

sonerfoca.net