1.

Yukarıdaki valizler otobüsün bagaj kısmına yerleştirilecektir. **Kütlesi iki düzineden az olan valizlerin elde taşınmasına izin verildiğine göre bagaj kısmına kaç valiz yerleştirilmiştir?**

Çözüm:

2. Onlar basamağı 7 olan en büyük iki basamaklı sayının rakamları toplamı iki desteden kaç eksiktir?

Çözüm:

3. Bir çiftlikte 8 horoz, 12 tavuk vardır. Çiftliğe her gün 2 horoz, üç tavuk gelmektedir. **2 gün sonra çiftlikteki hayvan sayısı kaç olur?**

Çözüm:

4.



Mehmet üzerinde sayıların yazılı olduğu merdivenin basamaklarından aşağı inecektir. **Merdiven 9 basamaklı olduğuna göre Mehmet'in son iki adımındaki basamakta yazan sayıların toplamı kaçtır?**

Çözüm:

5.

13 15 17 23

Yukarıda noktalı yerlere yazılması gereken sayılar toplanıyor. Elde edilen sayıdan geriye doğru beşer ritmik sayarken 4. saymada hangi sayısı söyleriz?

Çözüm:

6.

- 5 onluk 2 birlikten oluşan sayıyı yaz.
- Yazdığın sayının rakamlarının yerini değiştir.
- Oluşan sayıya 28 ekle.

Öğretmenin yönergelerine göre hangi sayı elde edilir?

Çözüm:

7. 3● sayısının en yakın onluğu 40'tır. Buna göre "●" ile belirtilen yere yazılabilecek rakamların toplamı kaçtır?

Çözüm:

8. Bil bilgi yarışmasında duğru cevaplanan her soruya 10 puan veriliyor. Yanlış cevaplanan her soru için de 5 puan siliniyor. **Buna göre 9 doğru 4 yanlış cevap veren biri kaç puan alır?** (Puanlar hesaplanırken ritmik sayma kullanılmılştır.)

Çözüm:

9.



Dila Rüya Onur

Dila, Rüya ve Onur isimli üç arkadaş plastiklerin doğaya zarar vermesini engellemek için şişe toplamışlardır. Rüya iki deste, Onur 27 şişe toplamıştır. **Dila; Rüya ve Onur'un toplamından 15 eksik şişe toplamıştır. Buna göre Dila kaç şişe toplamıştır?**

Çözüm:

10.

Yusuf Ayfer

Yusuf'un kütlesi 3 desteden 4 fazla olan sayıya eşittir. Ayfer'in kütlesi ise Yusuf'tan 9 eksiktir. **Buna göre ikisinin toplam kütlesi kaçtır?**

Çözüm:

11.

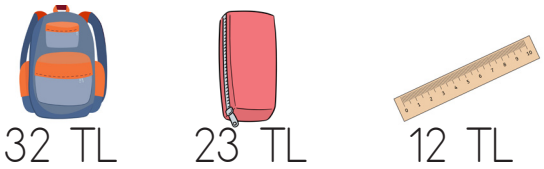

Yukarıda bir kırtasiyede satılan ürünlerin fiyatları verilmiştir. Kırtasiyeci 50 lirayı geçen harcamalarda cetveli hediye etmektedir. **Buna her üründen birer tane alan biri kaç lira öder?**

Çözüm:

12. 3 onluk 4 birlikten oluşan sayının onlar basamağındaki rakamın basamak değeri, iki basamaklı en küçük sayıdan kaç fazladır?

Çözüm:

13. Annem 72 tane kurabiye yaptı. 24 tanesini misafirlerlere, 19 tanesini komşulara dağıttı. **Geriye kaç kurabiye kaldı?**

Çözüm:

14. Tuna'nın 34 lirası vardır. Kardeşinin parası ise Tuna'dan 15 lira eksiktir. İki kardeş paralarını birleştirip 84 liralık topu almak istemektedir. **Buna göre kaç liraya ihtiyaçları vardır?**

Çözüm:

15. Annem 12 yıl sonra 41 yaşında olacaktır. **Buna göre annemin 7 yıl önceki yaşı kaçtır?**

Çözüm: