1. Bir torbadaki 12 karpuzun 4 tanesi tüketilmiştir. Kalan karpuzların 2 tanesi satılmıştır. **Son durumda kaç karpuz kalmıştır?**

ÇÖZÜM:

2. Yandaki sayılardan 10'dan küçük olanlar toplanırsa sonuç kaç olur?

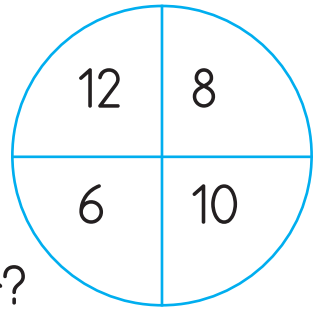

ÇÖZÜM:

3. İlker'in 20 tane kalemi var. Bu kalemlerden 7 tanesi sarı, 5 tanesi mavi, geriye kalanlar ise kırmızıdır.
Buna göre İlker'in kaç tane kırmızı kalemi vardır?

ÇÖZÜM:

sonerhoca.net

4.

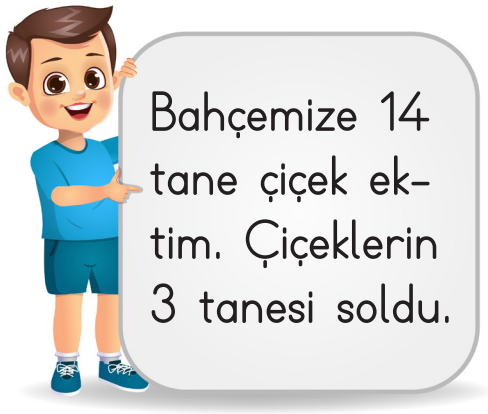

Samet'in ektiği çiçeklerden kaç tanesi solmamıştır?

ÇÖZÜM:

5. Bir torbadaki 12 karpuzun 4 tanesi tüketilmiştir. Kalan karpuzların 2 tanesi satılmıştır. **Son durumda kaç karpuz kalmıştır?**

ÇÖZÜM:

6. 4 - ..... - ..... - ?

Deniz 4'ten başlayıp her seferinde 3 ekleyerek sırayla sayıları yazacaktır. **Buna göre Deniz "?" yerine aşağıdaki sayılardan hangisini yazmalıdır?**

ÇÖZÜM:

7. Bir toplama işleminde birinci toplanan 4, ikinci toplanan ise birinci toplanandan 5 fazladır. **Buna göre bu toplama işleminin sonucu kaçtır?**

ÇÖZÜM:

8. Sepetteki armutlara kaç armut daha eklenirse sepette toplam 15 armut olur?



ÇÖZÜM:

9. İleriye doğru birer ritmik saydığımızda 6'dan sonra söylenen sayı ile hangi sayıyı topladığımızda sonuç 12 olur?

ÇÖZÜM:

10. Gizem'in topladığı elmaların 6 tanesi kurtlu, geri kalanları sağlamdır. **Gizem toplam 18 elma topladığına göre kaç sağlam elma toplamıştır?**

ÇÖZÜM:

sonerhoca.net

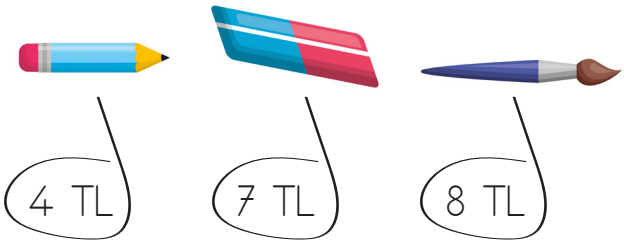

11. 12 ve 13. soruları yukarıdaki görsele göre cevaplayalım.

11. Kalem ve fırçanın fiyatları toplamı kaç liradır?

ÇÖZÜM:

12. Ahmet 1 silgi ve 1 kalem alıp kırtasiyeye 20 lira verirse kaç lira para üstü alır?

ÇÖZÜM:

13. Yukarıdaki 3 ürünü de almak isteyen biri kaç lira ödeme yapar?

ÇÖZÜM:

sonerhoca.net

14.

Ela'nın kumbarasından yukarıdaki paralar çıkmıştır. **Ela 9 TL değerindeki oyuncağı alırsa ne kadar parası kalır?**

ÇÖZÜM:

15.

Buse kumbarasına üç gün boyunca her gün yukarıdaki kadar para atmıştır. **Üç günün sonunda Buse'nin kumbarasında kaç lirası olur?**

ÇÖZÜM: