1. 294 sayısının birler basamağı ile yüzler basamağı yer değiştirdiğinde oluşan yeni sayı ile 253 sayısının yüzler basamağı ile birler basamağı yer değiştirdiğinde oluşan yeni sayının toplamı kaçtır?

ÇÖZÜM:

2. Birler basamağı 6 olan üç basamaklı en küçük sayı ile onlar basamağı 4 olan üç basamaklı en büyük sayı arasındaki fark kaçtır?

ÇÖZÜM:

3. Bahçedeki elma ağacı sayısı, armut ağacı sayısı ile ayva ağacı sayısının toplamına eşittir. Armut ağacı sayısı ayva ağacı sayısından 123 fazladır. Ayva ağacı sayısı 112 olduğuna göre bahçede bulunan elma, armut ve ayva ağaçlarının toplam sayısı kaçtır?

ÇÖZÜM:

sonerhoca.net

4.

Fuat Ersin Okan

Fuat, Ersin ve Okan kendilerine forma alacaklardır. Formalarının üzerinde yazan numaraların toplamı onlar basamağı 7 olan rakamları farklı üç basamaklı en küçük tek sayıya eşit olacaktır. Yukarıda verilen forma numaralarına göre Okan'ın alacağı forma numarası kaç olmalıdır?

ÇÖZÜM:

5. 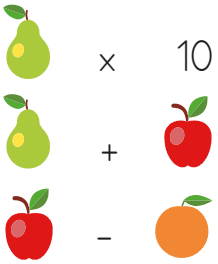

Yukarıdaki işlemlerde toplamı kaçtır?

ÇÖZÜM:

6. İki basamaklı en büyük çift doğal sayısının 6 katı, üç basamaklı en küçük sayıdan kaç fazladır?

ÇÖZÜM:

7.

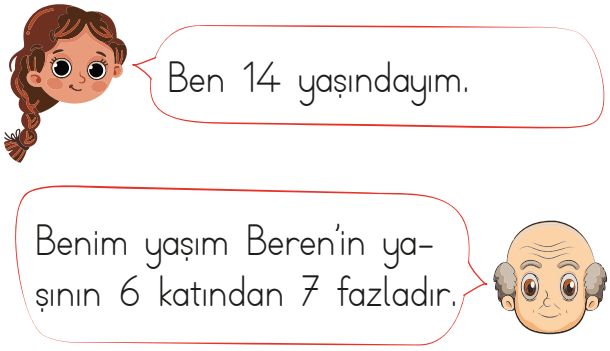

Beren ve dedesinin 4 yıl sonraki yaşları toplamı kaç olur?

ÇÖZÜM:

8. Her rafında 29 kitap bulunan kitaplıkta 15 raf bulunmaktadır. Kitapların 59 tanesi okunmak için alınmıştır.
Buna göre kitaplıkta kaç kitap kalmıştır?

ÇÖZÜM:

sonerhoca.net

9. Bir çiftlikte 67 koyun, koyunların 2 katı kuzu bulunmaktadır. Çiftlikteki koyun ve kuzuların ayak sayıları toplamı kaçtır?

ÇÖZÜM:

10. Bir çiftçi 8 kasa nar almıştır. Her kasada 12 tane nar vardır. Elindeki tüm narları dörderli torbalara doldurdumak istediğinde kaç torbaya ihtiyacı olur?

ÇÖZÜM:

11. Öğretmen tahtaya iki farklı bölme işlemi yazmıştır. Bölme işlemlerinden birinde bölen 8, bölüm 6'dır. Diğerinde ise bölen 6, bölüm 5'tir. **Bu iki bölme işleminde bölünenlerin alabilecekleri en büyük değerlerin toplamı kaçtır?**

ÇÖZÜM:

12. Bir çiftlikte eşit sayıda tavuk ve horoz bulunmaktadır. **Bu çiftlikteki hayvanların ayak sayıları toplamı 44 olduğuna göre horoz sayısı kaçtır?**

ÇÖZÜM:

13. Bir sınıfta bulunan 37 kişi her sırada 3 kişi oturmak kaydıyla sınıfa yerleşiyor. **Bu sınıftaki oturma düzeninde üçerli oturamayan kaç kişi olmuştur?**

ÇÖZÜM:

sonerhoca.net

14. Bir otelin 40 odası vardır. Odalardan 18 tanesi 3 kişilik geri kalanlar 2 kişiliktir. **Otelin tam dolu olduğu bir zaman otelde kaç kişi konaklayabilir?**

ÇÖZÜM:

15.



Yukarıdaki havuzu iki musluk doldurmaktadır. 1. musluk dakikada 25 litre su akıtmaktadır. 2. musluk dakikada 1. musluğun akıttığı su miktarının 2 katı kadar su akıtmaktadır. **İki musluk aynı anda açıldıktan 6 dakika sonra boş havuzda kaç litre su birikir?**

ÇÖZÜM:

16.

Bir mağza yaptığı kampanyada bütün ürünleri $\frac{1}{2}$'i fiyatına satılmaktadır.

Buna göre mağzadan yukarıdaki görselde verilen kıyafetleri alan kişi kaç lira öder?

ÇÖZÜM:

17.



Yukarıdaki kağıttan uçakların dörtte biri yeşile, üçte biri kırmızıya, geri kalanları ise maviye boyanacaktır. **Buna göre maviye boyanacak uçurtma sayısı kaçtır?**

ÇÖZÜM:

18. Bir çiftlikte 48 inek ve ineklerin çeyreği kadar da keçi vardır. **Bu çiftlikteki inek ve keçilerin sayılarının toplamı kaçtır?**

ÇÖZÜM:

19.

Kiraz ağacı	22
Elma ağacı	36

Bahçemizdeki kiraz ağaçlarının $\frac{1}{2}$'i kadar armut ağacı, elma ağaçlarının $\frac{1}{2}$'i kadar şeftali ağacı var.

Bahçemizde dört ağaç türünden toplam kaç ağaç vardır?

ÇÖZÜM:

20. Bakkal Kemal yandaki şekerden 3 kutu aldı. Bir kutuda 30 tane şeker vardır.

Kemal şekerlerin $\frac{1}{5}$'ini sattığına göre satılan şeker sayısı kaçtır?

ÇÖZÜM:

sonerhoca.net