1. 

Yukarıdaki iki okul servisinden birinde 7 kişilik koltuk, diğerinde 13 kişilik koltuk vardır. **Bu otobüsün tüm koltukları dolduğuna göre otobüslerde toplam kaç yolcu vardır?**

ÇÖZÜM:

2.

Yukarıdaki ördek 1 haftada 8 kez yumurtlamış, tavuk ise ördekten 3 fazla yumurtlamıştır. **1 haftada ördek ve tavuk toplam kaç kez yumurtlamıştır?**

ÇÖZÜM:

3. Elimdeki çiçeklere 1 deste çiçek daha eklenince toplam 15 çiçeğim oldu. **Başlangıçta elimde kaç çiçek vardı?**

ÇÖZÜM:

4.

Bir futbol maçında Emre 6, Sinan 3, Bilal 4 gol atmıştır. **Başka gol olmadığına göre bu maçta toplam kaç gol atılmıştır?**

ÇÖZÜM:

5. 17 balonun 5 tanesi patladı. **Patlayan balonların yerine 2 balon alınırsa kaç balonumuz olur?**

ÇÖZÜM:

sonerhoca.net

6.

Defne, yukarıdaki rakamlardan iki tanesini seçerek topluyor. **Buna göre toplam en fazla kaç olabilir?**

ÇÖZÜM:

7. Salih'in yandaki kumbarasında bir miktar para vardır. Salih her gün kumbarasına 4 lira atmaktadır. **İki günün sonunda Salih'in kumbarasında 10 lira olduğuna göre önceden kaç lirası vardı?**



ÇÖZÜM:

8. 

Yukarıdaki kargaların her biri ağaçlardan beşer elma toplamıştır. **Tüm kargalar toplam kaç elma toplamıştır?**

ÇÖZÜM:

9. **3 yarım elma ve 1 bütün elma kaç yarım elma eder?**

ÇÖZÜM:

10. Arda'nın yandaki saksıyı almak için 4 liraya daha ihtiyacı vardır. **Buna göre Arda'nın eline kaç lirası vardır?**

ÇÖZÜM:

sonerhoca.net

11.

Yukarıda meyvelerin üzerinde kaç tane olduğu yazmaktadır. **Buna göre yarım olan meyvelerin toplam sayısı kaçtır?**

ÇÖZÜM:

12. Zeynep'in kursu saat 2'de başlayıp 7'de bittiğine göre **Zeynep kaç saat kursta kalmıştır?**

ÇÖZÜM:

13. Nehir'in 16 lirası vardır. **Kırtasiyeden kalem alan Nehir'in 7 lirası kaldığına göre kalemin fiyatı kaç liradır?**

ÇÖZÜM:

14. Birsel Öğretmen boyama çalışması yapmak istemektedir. Bu çalışma 3 saat sürmüştür. **Saat 4'te boyama çalışmasına başladığına göre saat kaçta çalışmayı bitirmiştir?**

ÇÖZÜM:

sonerhoca.net

15.

Dönme dolabın ilk turda tüm koltukları doludur. İkinci turda ise 3 koltuğu boş diğer koltukları doludur. **2 turda dönme dolaba toplam kaç kişi binmiştir?**

ÇÖZÜM: