ROBOTLARLA TANIŞMA

Arif yeni bilgiler öğrenmeyi, araştırmayı seven bir öğrenciydi. Öğretmeni ders sonunda robotlarla ilgili araştırma ödevi vermişti. Robot hakkında edinilen bilgiler sınıf ortamında paylaşılacaktı. Arif, anne ve babasının yardımını da alarak birçok bilgi edindi. Robot hakkında öğrendikleri onu çok heyecanlandırmıştı. O günden sonra bir robot tasarlamanın hayalini kuran Arif'in heyecanı ve mutluluğu gözlerinden okunuyordu.

1, 2 ve 3. soruları metne göre cevaplayalım.

1. Öğretmenin Arif'e verdiği ödev nedir?

A. Eldeli Toplama İşlemi

B. Eş Anlamlı Kelimeler

C. Robotlarla İlgili Araştırma

2. Arif ödevini yaparken kimlerden yardım almıştır?

A. Ablasından

B. Anne ve babasından

C. Kuzeninden

3. Ödevini yapan Arif'in hayali nedir?

A. Mühendis olmak

B. Öğretmen olmak

C. Robot tasarlamak

4. 

Aşağıdakilerden hangisi alfabetik sırada "H" ve "M" sesleri arasında yer almaz?

A. K

B. P

C. L

5. 

3

2

4

Yukarıdaki görseli verilen kelimeler hece sayıları ile eşleştirilirse hangi şekli elde ederiz?

A. 

B. 

C. 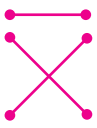

6. 

Yanımızdan geçen araba çok hızlı gidiyordu.

Aşağıdakilerden hangisi yukarıdaki altı çizili sözcüğün zıt anlamlısıdır?

A. yavaş

B. süratli

C. tehlikeli

7. uzun — kısa

okul — mektep

Yukarıda verilen sözcükler zıt anlamlılarıyla eşleştirilirse hangileri dışarıda kalır?

A. 

B. 

C. 

8. 

Yukarıda görseli verilen nesnenin ismine ait sözcükle ilgili aşağıdakilerden hangisi söylenemez?

A. 3 heceden oluşur.

B. Ünsüz harf sayısı 4'tür.

C. 6 sesten oluşmuştur.

9. 



Yukarıdaki çiçeğin yapraklarında yazan sözcüklerle anlamlı ve kurallı cümle oluşturulacaktır. Seçilen sözcüklerin yazılı olduğu yapraklar koparıldıktan sonra çiçeğin son görüntüsü hangisidir?

A. 

B. 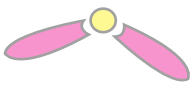

C. 

10. cumhuriyet — vatanseverlik

Verilen ifadelerden hangisi yukarıdaki kelimelerden herhangi birinin sözlük anlamı değildir?

A. Milletin, egemenliği kendi elinde tuttuğu yönetim biçimi.

B. Yurdunu, milletini büyük bir coşku ile sevmek.

C. Bir devletin egemenliği altında bulunan toprakların tümü.

11. 

Yukarıdaki cümlede ayraç ( ) içinde sırasıyla hangi noktalama işaretleri kullanılmalıdır?

A. nokta - nokta

B. ünlem - virgül

C. ünlem - nokta

12. Sıla, pamuğa mama aldı.

Bu hafta izmire gideceğiz.

Okulda eğitim devam ediyor.

Yukarıdaki cümlelerin hangilerinde büyük harfin yazımı ile ilgili yanlışlık yapılmıştır?

A. 

B. 

C. 

13. Aşağıdaki sözcüklerden hangisinin yazımında yanlışlık yapılmamıştır?

A. 
Bir kaç

B. 
herkez

C. 
sürpriz

14. SORUYA GEL

 ve  ifadeleri birbiri ile eş anlamlıdır.

 ve ifadeleri birbiri ile zıt anlamlıdır.

Aşağıdaki seçeneklerin hangisinde sözcükler bu açıklamaya uygun düzenlenmiştir?

 

A. yoksul fakir zengin

B. zor kolay basit

C. kuru ıslak yaş

15.  Annemin yemeklerini severim.

 Öğretmenimiz bizim için emek eden

 Arkadaşlarımla oyun oynamayı severim.

 Defterimi evde

Yukarıdaki ifadelerden hangileri anlamlı ve kurallı cümledir?

A. 

B. 

C. 

1.

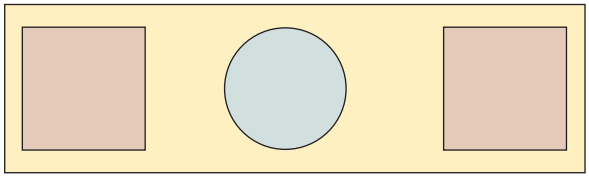

Yukarıda verilen şekilde hangi geometrik şekil kullanılmamıştır?

A. kare B. üçgen C. daire

2.



Robot Bobo, enerji toplamak için geometrik cisim pillerini kullanıyor. Bobo'nun enerji kazanma kuralları

– Eğer kullandığı cismin köşesi varsa 5 enerji puanı kazanır.

– Eğer kullandığı cismin hiç köşesi yoksa 10 enerji puanı kazanır.

Bobo, yerden bir tane küp ve bir tane kare prizma pil alıp kullanmıştır. **Buna göre Bobo toplam kaç enerji puanı kazanmıştır?**

A. 10 B. 15 C. 20

3. 1 çay bardağı 10 yemek kaşığı ile doluyorsa 2 çay bardağı kaç yemek kaşığı ile dolar?

A. 20 B. 30 C. 40

4.

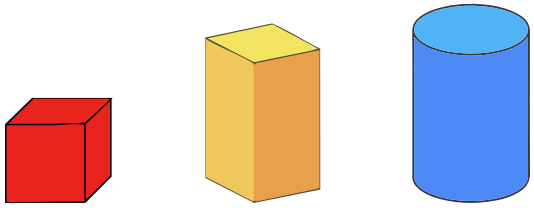

5 çay bardağı | 10 çay bardağı | 15 çay bardağı

Erva oyuncak bebeği için yukarıdaki havuzları yapmıştır. Her havuzun kaç çay bardağı ile dolacağı altında yazmaktadır.

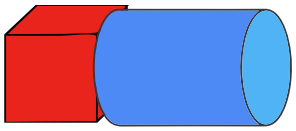

Havuzlardan 2 tanesini birleştirerek yukarıdaki havuzu tasarlayan Erva bu havuzu tam doldurmak için kaç bardak su harcar?

A. 15 B. 20 C. 25

5. 8 birlik, 4 onluktan oluşan sayının birler basamağı 3 azaltılırsa yeni oluşan sayı kaç olur?

A. 81 B. 54 C. 45

6.

1 →	60	67	70
2 →	40	36	50

Ortadaki sayıların hangi onluklar arasında olduğu yazılmıştır. **Buna göre seçeneklerdeki ifadelerden hangisi doğrudur?**

A. İkisi de yanlış yazılmıştır.
B. İkisi de doğru yazılmıştır.
C. Sadece 1 tanesi doğru yazılmıştır.

7. **48 sayısı hangi sayılar arasındadır?**

A. 43 – 47
B. 45 – 50
C. 49 – 52

8.

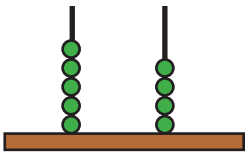

Yukarıdaki abaküste onluklarda bulunan boncuklardan 3 tanesi birliklere aktarılırsa oluşan yeni sayının en yakın onluğu kaç olur?

A. 20 B. 30 C. 40

9. Büyük sayıyı sil. Küçük sayıyı sil.

18	13
35	39

37	43
21	19

Yukarıda verilen sayılardan yönergede istenenler silinirse son görüntü nasıl olur?

A.

	13
35	

	43
21	

B.

18	
	39

37	
	19

C.

18	
35	

37	
21	

10.

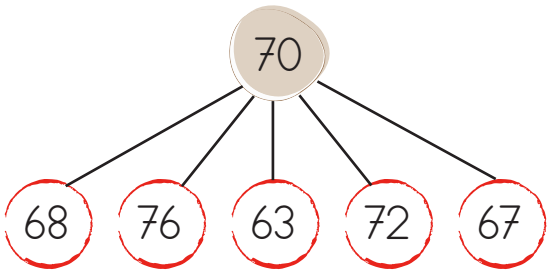

Verilen sayılardan en üstteki sayıya yakın olanlar işaretlenirse kaç tane işaretleme yapılmış olur?

A. 2 B. 3 C. 4

11. 

Onluk: kırmızı boncuk
Birlik: mavi boncuk

Yukarıdaki abaküste 64 sayısını oluşturmak için renklerine göre kaç boncuğa ihtiyaç vardır?

A. 4 kırmızı, 6 mavi

B. 6 kırmızı, 4 mavi

C. 5 kırmızı, 6 mavi

12. 

Yukarıda verilen ağaçtaki kiraz sayısı için aşağıdaki ifadelerden hangisi yanlıştır?

A. 1 onluktan 6 fazladır.

B. 1 onluk, 6 birlikten oluşur.

C. 2 onluktan 5 eksiktir.

13. Aşağıda okunuşları verilen sayıların hangisinde yanlışlık yapılmıştır?

A. 47 → kırk yedi

B. 52 → elli iki

C. 35 → elli üç

14.  26,27,28,.....,33,34

Yukarıda boş bırakılan yerleri doldumak istediğimizde 30 ile 40 arasındaki kaç sayıyı yazabiliriz?

A. 2

B. 3

C. 4

15. ■ = 53 ● = 64 ▲ = 95

Yukarıda sembollerin belirttiği sayılara göre sembollerin büyükten küçüğe sıralaması hangi seçenekteki gibi olmalıdır?

A. ■ ● ▲

B. ▲ ● ■

C. ● ▲ ■

1. Beslenme saatinde Kaan, beslenme çantasını evde unuttuğunu fark edip çok üzüldü. Yanında oturan arkadaşı Mesut, onun üzgün olduğunu gördü ve çantasında iki tane elma olduğunu hatırladı.

Bu durumda Mesut'un iyi bir arkadaş olarak hangisini yapması gerekir?

A. "Neden unuttun?" deyip kızmalı
B. Elmalardan birini Kaan'la paylaşmalı
C. Elmaları Kaan görmeden yemeli

2. **Aşağıdaki ifadelerden hangisi yanlıştır?**

A. Hızlı koşmak güçlü bir yanımız olabilir.
B. Güçlü yanlarımızı çalışarak geliştirebiliriz.
C. Zayıf olduğumuz bir yanı asla geliştiremeyiz.

3. **Verilenlerden hangisi doğru iletişim kurmak için önemlidir?**

A. Sadece kendi istediklerimizi söylemek
B. Karşımızdaki konuşurken onu dikkatle dinlemek
C. Konuşurken sürekli etrafa bakmak

4. Öğretmen ders anlatırken Mert, pencereden dışarıdaki kuşlara bakıyordu. Eliyle de silgisiyle oynuyordu. Öğretmeni, Mert'e kendisini dinlemesi için seslendi.

Mert iletişimde hangi hatayı yapmıştır?

A. Konuşanın sözünü kesmiştir.
B. Nezaket ifadeleri kullanmamıştır.
C. Etkin dinleme yapmamıştır.

5. 

Öğretmenin verdiği görevde Merve zorlanınca ona destek oldum.

Azra'nın anlattığı durum arkadaşlık ilişkileri ile ilgili verilen değerlerden hangisi açıklamaktadır?

A. adil olma
B. yardımlaşma
B. dürüstlük

6.
1. Herkes fikrini sunmalıdır.
2. Ortak karara varılamazsa oylama yapılmalıdır.
3. Ders başarısı düşük olan öğrencilerin fikirleri dikkate alınmamalıdır.

Sınıfta alınacak kararlar için yukarıdaki ifadelerden hangileri doğrudur?

A. 1 ve 2 B. 2 ve 3 C. 1 ve 3

7. Aşağıdakilerden hangisi kişisel temizliğimiz ve sağlığımız için yapmamız gereken doğru bir davranıştır?

A. Tırnaklarımızı ayda bir kere kesmek
B. Yemeklerden önce ve sonra ellerimizi sabunla yıkamak
C. Dişlerimizi sadece sabahları fırçalamak

8. Aşağıdaki besinlerden hangisini tüketmek sağlığımıza zarar verir?

A. 
B. 
C. 

9.

Şampuan	Tırnak makası
Tarak	Çatal
Kitap	Sabun

Yukarıdakilerden kaç tanesini kişisel bakım için kullanırız?

A. 4 B. 5 C. 6

10. Ali, okulda beslenme saatinde çantasından cips, çikolata ve gazlı içecek getirmişti. Arkadaşı Efe ise peynirli sandviç, ayran ve elma getirdi.

Bu duruma göre, sağlıklı büyüme ve gelişme için kim daha doğru bir seçim yapmıştır?

A. Sadece Ali B. Sadece Efe C. Her ikisi

1. Ali'nin 8 kurşun kalemi, 5 kırmızı kalemi vardır. Aşağıdakilerden hangisi Ali'nin kalem sayılarından birinin İngilizce karşılığı değildir?

A. five

B. seven

C. eight

2.





Yukarıdaki arabaların renkleri sırasıyla hangi seçenekte doğru olarak verilmiştir?

A. purple – red

B. red – green

C. pink – green

3. Aşağıda verilen kelimerden hangisinin İngilizce karşılığı yanlış verilmiştir?

A. ruler – açacak

B. chair – sandalye

C. table – tahta

4.





Aşağıdaki ifadelerden hangisi yukarıdaki görsellerden biriyle alakalı değildir?

A. classroom

B. lunch hall

C. playground

5.

four + seven = eleven

six + two = eight

two + three = nine

Hangi renk kutudaki işlemin sonucu yanlış olarak verilmiştir?

A. green

B. pink

C. yellow

TÜRKÇE

1- C
2- B
3- C
4- B
5- B
6- A
7- A
8- C
9- B
10- C
11- C
12- A
13- C
14- A
15- B

MATEMATİK

1- B
2- A
3- A
4- B
5- C
6- C
7- B
8- B
9- A
10- B
11- B
12- C
13- C
14- A
15- B

HAYAT BİLGİSİ

1- B
2- C
3- B
4- C
5- B
6- A
7- B
8- B
9- A
10- B

İNGİLİZCE

1- B
2- B
3- A
4- B
5- A