1. Beren, okul şenliğinde satılan biletleri sayıyor. Bulduğu sayının birler basamağında 7 olduğunu ve bu sayıyı en yakın onluğa yuvarladığında 350 elde edileceğini söylüyor. **Buna göre okul şenliğinde kaç bilet satılmıştır?**

Çözüm:
347 sayısı 350 olur.
Cevap: 347

2.



Yukarıda ilk dört adımı verilen örüntünün sonraki 3 adımının toplamı kaçtır?

Çözüm:
15 - 4 = 11
11 - 4 = 7; 7 - 4 = 3
11 + 7 + 3 = 21

3. Miray'ın evde 9 boncuğu vardı. Bileklik yapmak için 2 kutu ve 4 paket boncuk aldı. Her kutuda 100 boncuk, her pakette ise 10 boncuk vardı. Miray, aldığı paketlerden ikisini açtı ve bu iki paketteki boncukların tamamını bir bileklik yapmak için kullandı.
Miray'ın geriye kaç boncuğu kaldı?

Çözüm:
200 + 40 + 9 = 249
249 - 20 = 229

4.



Yukarıda bir kukla gösterisinin başlangıç ve bitiş saati verilmiştir. **Buna göre bu kukla gösterisi kaç dakika sürmüştür?**

Çözüm:
14.40 -> 15.00: 20 dk
15.00 -> 15.25: 25 dk
20 + 25 = 45 dk

5.

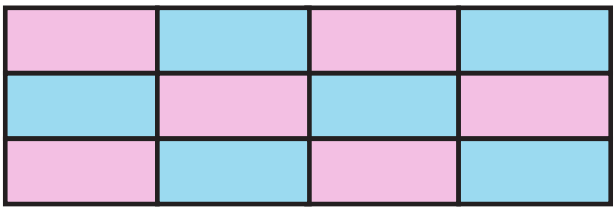

Yukarıdaki şekil eş parçalara ayrılmış ve bu parçaların bazıları maviye boyanmıştır. **Maviye boyanan kısmı gösteren kesrin payı ile paydasının toplamı kaçtır?**

Çözüm:
12 parça, 6 mavi
Pay: 6, payda: 12
6 + 12 = 18

6. Ceren, sınıf panosu için 12 fotoğraf seçti. Pazartesi günü 3 fotoğraf astı. Salı günü ise bir önceki günden 1 fotoğraf daha fazla astı. **İki günün sonunda Ceren'in seçtiği fotoğrafların kaçta kaçı henüz panoya asılmamıştı?**

Çözüm:
Salı: 3 + 1 = 4
3 + 4 = 7; 12 - 7 = 5
Cevap: 5/12

7. Nehir'in bineceği vapur saat 11.10'da kalkacak. Nehir, vapur kalkmadan tam 10 dakika önce iskelede olmak istiyor. Evinden iskeleye yürümek 25 dakika sürüyor. **Nehir evden saat kaçta çıkmalıdır?**

Çözüm:
11.10 - 10 dk = 11.00
11.00 - 25 dk = 10.35

8. Bora, 4 yüzlük, 6 birlik ve 2 onluktan oluşan sayıyı yazıyor. Önce onlar ve birler basamağındaki rakamların yerini değiştiriyor. Ardından elde ettiği sayıya 10 ekliyor. **Bora'nın bulduğu son sayı kaçtır?**

Çözüm:
400 + 20 + 6 = 426
426 -> 462
462 + 10 = 472

9.

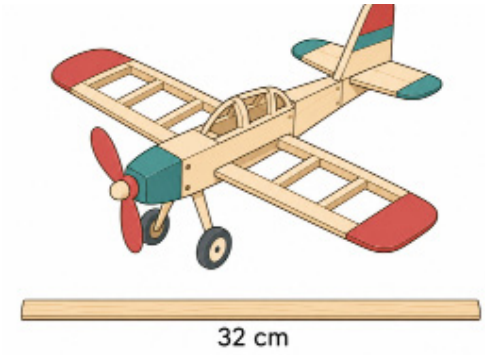

Asya, maket uçak yapmak için 32 santimetre uzunluğunda bir çıta aldı. Çıtanın yarısını uçağın gövdesini, dörtte birini de kuyruğunu yapmak için kullandı. **Çıtanın kaç santimetresi kaldı?**

Çözüm:
Yarısı: 16 cm
Dörtte biri: 8 cm
32 - 16 - 8 = 8 cm

10.





Ceyda bisiklet turuna başladığında saat yukarıdaki gibiydi. Tur 1 saat 15 dakika sürdü. **Ceyda turunu saat kaçta tamamladı?**

Çözüm:
10.45 + 1 saat = 11.45
11.45 + 15 dk = 12.00

11. Selin, bir çiçek bahçesindeki 16 saksının dörtte birine lale, dörtte birine ise papatya dikti. Geriye kalan saksılara henüz çiçek dikmedi. Selin'in çiçek dikmediği kaç saksı kalmıştır?

Çözüm:
4 + 4 + 4 + 4 = 16
4 + 4 = 8; 16 - 8 = 8

12. Duru'nun biri 10 dakikalık, diğeri çeyrek saatlik iki kum saati vardır. Duru önce 10 dakikalık kum saatini çevirir. Kum bitince aynı saati bir kez daha çevirir. İkinci kez kum bittiğinde bu kez çeyrek saatlik kum saatini çevirir. Son kum tanesi de düştüğünde başlangıçtan itibaren toplam kaç dakika geçmiştir?

Çözüm:
10 + 10 + 15 = 35 dk

13. Sude, 0 ile 1 arasını 8 eş parçaya ayırarak bir sayı doğrusu çiziyor. Önce 0'dan başlayarak 4 aralık ilerliyor. Daha sonra aynı yönde 3 aralık daha ilerliyor. Sude'nin ulaştığı nokta hangi kesri gösterir?

Çözüm:
4 + 3 = 7 aralık
Son nokta: 7/8

14.



Bir etkinliğin başlangıç ve bitiş saatleri yukarıdaki analog saatlerde gösterilmiştir. Buna göre etkinlik toplam kaç dakika sürmüştür?

Çözüm:
2.00 -> 4.00: 120 dk
4.00 -> 4.30: 30 dk
120 + 30 = 150 dk

15.



Doruk, cumartesi günü sinemaya film izlemeye gitti. İzleyeceği filmin başlangıç saati ve ne kadar süreceği yukarıda verilmiştir. Buna göre Doruk'un izlediği film saat kaçta sona erdi?

Çözüm:
14.20 + 1 saat = 15.20
15.20 + 45 dk = 16.05

16. Bir sayı oyununda Berk, aşağıdaki işlemleri sırasıyla yapıyor.
- 463 sayısını en yakın yüzlüğe yuvarlıyor.
- Bulduğu sayının yüzler basamağındaki rakamı 2 artırıyor.

Buna göre Berk'in elde ettiği son sayı kaçtır?

Çözüm:
463 -> 500
500 -> 700

17. Bir okulda düzenlenen spor etkinliği pazartesi günü başladı. Etkinlik 3 hafta boyunca yalnızca hafta içi günlerde yapıldı. Ancak yağmurlu olduğu için 4 gün etkinlik düzenlenemedi. Buna göre spor etkinliği toplam kaç gün yapılmıştır?

Çözüm:
5 + 5 + 5 = 15 gün
15 - 4 = 11 gün

18. Bir müzede ziyaretçilere her 20 dakikada bir rehberli tur düzenlenmektedir. İlk tur saat 10.00'da başlamış, sonraki turlar da aynı aralıklarla devam etmiştir. Buna göre müzedeki beşinci rehberli tur saat kaçta başlayacaktır?

Çözüm:
10.00 / 10.20 / 10.40
11.00 / 11.20 (5. tur)

19.



Yukarıda Aylin'in yürüyüş planı verilmiştir. Verilen bilgilere göre Aylin'in yürüyüş planını tamamlama saati kaçtır?

Çözüm:
35 + 10 = 45 dk
18.20 + 45 dk = 19.05

20.

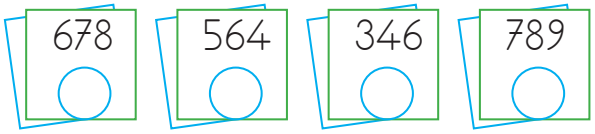

Yukarıdaki sayılardan hem en yakın onluğa hem de en yakın yüzlüğe yuvarlandığında kendisinden büyük bir sayı elde edilenlerin bulunduğu daireler işaretlenecektir. Buna göre işaretlenen dairelerdeki sayıların yüzler basamağındaki rakamların toplamı kaçtır?

Çözüm:
678 -> 680 -> 700
789 -> 790 -> 800
6 + 7 = 13